Les perpendiculaires et les parallèles (1)

Rappel



Pour savoir si deux droites sont perpendiculaires, tu dois vérifier avec ton équerre qu'elles se coupent en formant un angle droit.

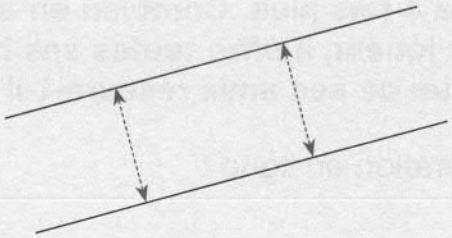

Deux droites parallèles ne se croisent jamais. Tu dois toujours trouver la même distance entre elles.

❶ Observe ces droites puis coche la bonne case dans le tableau

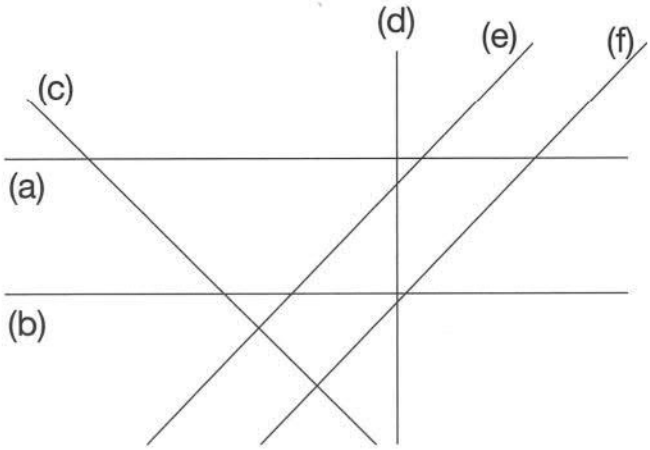

	Vrai	Faux
Les droites (a) et (b) sont parallèles.		
Les droites (c) et (d) sont parallèles.		
Les droites (e) et (f) sont parallèles.		
Les droites (b) et (d) sont perpendiculaires.		
Les droites (c) et (f) sont perpendiculaires.		
Les droites (d) et (a) sont perpendiculaires.		

❷ Sur le dessin ci-dessus, trace une droite (g) perpendiculaire à la droite (c) et une droite (h) parallèle à la droite (b).